Nom : ..... Prénom : ..... Date : .....

ÉVALUATION 3
Se loger, travailler, se cultiver, avoir des loisirs dans un espace touristique

Exercice 1 Connaître et localiser les espaces touristiques.

1 Complète la légende de la carte ci-dessous.

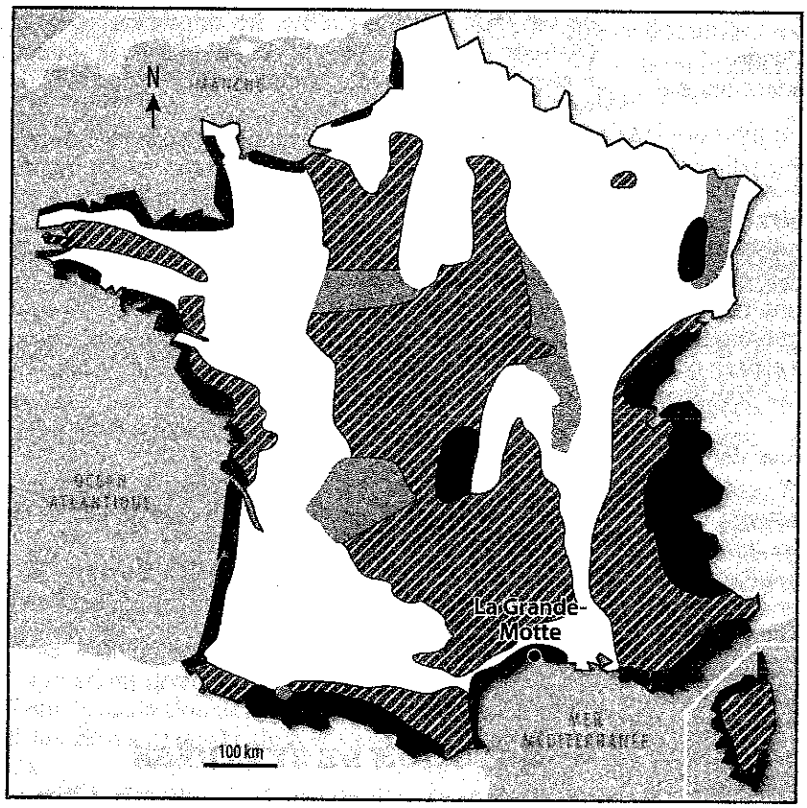

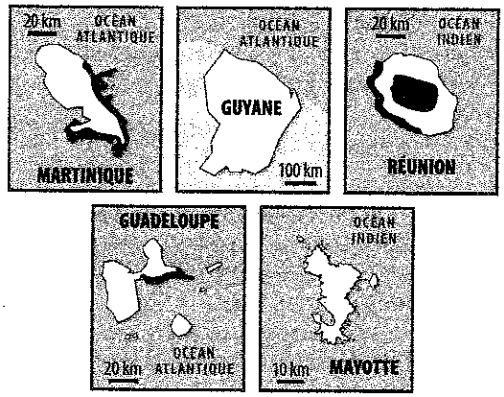

Légende :

- Tourisme balnéaire (mer)
- Tourisme de montagne
- Tourisme culturel
- Tourisme vert (à la campagne)

2 Localise, sur la carte, la station de Menton en représentant un rond bleu au bon endroit et en écrivant son nom au-dessus.

Exercice 2 Décrire et analyser la photographie d'une station touristique.



Photographie aérienne de la station balnéaire de La Grande-Motte.

2 À l'aide de la carte de l'exercice 1, indique où se situe la station de La Grande-Motte.

La Grande Motte est une station balnéaire créée au bord de la mer Méditerranée, d'où la création d'un port de grande capacité

3 Décris les bâtiments le long de la côte.

Les bâtiments les plus connus de la Grande Motte sont des bâtiments d'habitat collectif en forme de pyramide. Il est à noter que rien n'existait avant 1965

4 Pourquoi La Grande-Motte attire-t-elle beaucoup de touristes ? (*2 réponses attendues*)

Les conditions climatiques sont très bonnes en été (températures chaudes peu ou pas de pluies) Il y a de grandes plages. L'offre de logement est très importante : appartements dans copropriété, villa, emplacements de camping...

5 À ton avis, durant quelle saison les touristes viennent-ils principalement ? Entoure la bonne réponse.

automne — été — hiver — printemps

6 Complète la légende du croquis ci-dessous en décrivant ce que tu vois sur la photographie.



A : la mer

B : la plage

C : le port

D : les habitations collectives et individuelles

E : les campings

Croquis du paysage de La Grande-Motte.

Pour information, La Grande Motte a environ 9000 habitants à l'année et compte jusqu'à 120 000 personnes l'été - Le tourisme est le poumon économique de la ville

Exercice 3 **Présenter les avantages et les inconvénients d'un aménagement touristique.**

Une nouvelle station de sports d'hiver va être construite dans les Pyrénées (Sud de la France). Présente deux avantages, puis deux inconvénients de ce projet.

S'il y a création d'une nouvelle station de sports d'hiver, cela engendre
→ des avantages : création d'aménagements routiers (ou amélioration) évolution du bâti / hausse de l'activité économique ... donc l'offre d'emplois augmente !
→ des inconvénients : le cadre naturel est urbanisé ce qui engendre inévitablement un impact sur la faune et la flore, l'afflux de touristes qui envisagent un cadre jusqu'alors préservé...